Devoir Maison n°9

Exercice 1

Peux-tu affirmer que les points A, B et C sont alignés ? *(Justifier.)*

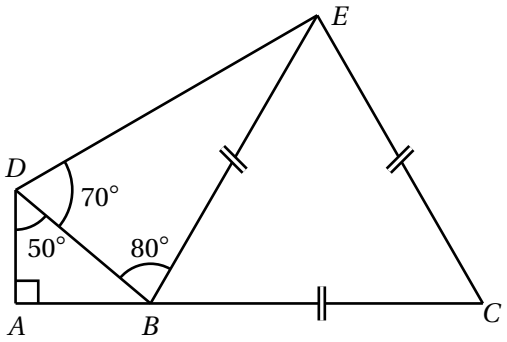

Exercice 2

En t'aidant du quadrillage, compléter la figure de telle sorte que O en soit le centre de symétrie.

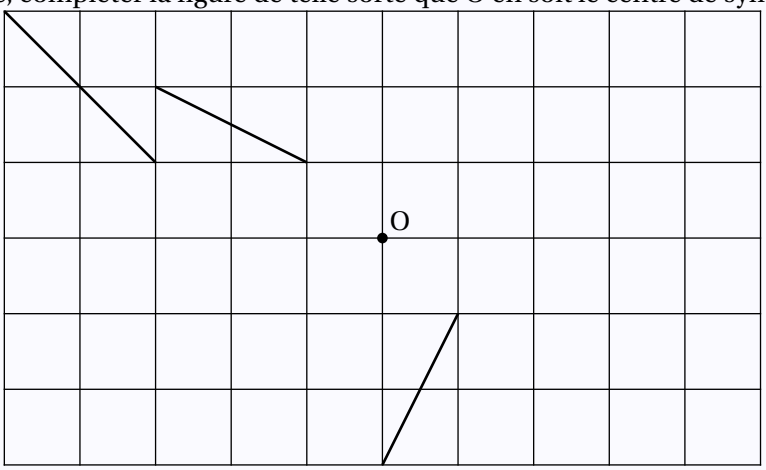

Exercice 3

« Samedi, j'ai nettoyé le quart du jardin. Dimanche, j'ai nettoyé les deux sixièmes de ce qui restait. Je terminerai le reste plus tard. »
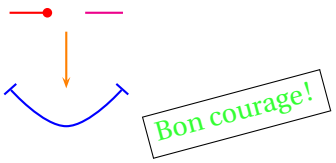
1. Calculer la fraction du jardin nettoyée dans la journée de dimanche.
2. Au total, quelle est la fraction du jardin nettoyée ?
3. La partie nettoyée est-elle plus grande ou plus petite que la moitié du jardin ?