# Coordonnées

## Activité 1 :

⋆ Écrire un script qui reproduit la figure ci-contre en utilisant les instructions ci-dessous.

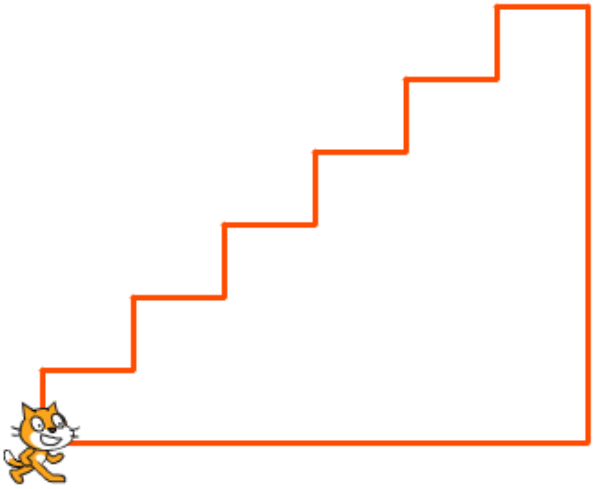

## Activité 2 :

⋆ Écrire un script qui reproduit la figure ci-dessous en utilisant les instructions ci-contre.

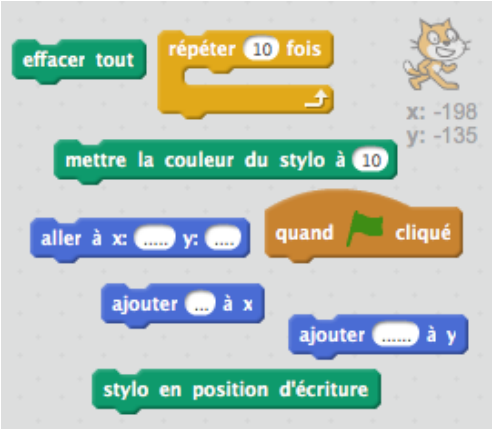


## Activité 3 :
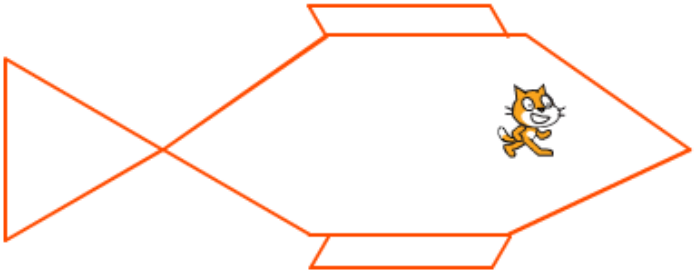
⋆ Écrire un script qui reproduit la figure ci-dessous.